Col·loca les línies divisòries on siguen necessàries



Escriu el nom de les notes



Completa els compassos que ho necessiten



Tatxa els temps que sobren en cada compàs



Assenyala els compassos que estiguen completats incorrectament



Endevina en quin compàs estan escrits els següents fragments musicals



Escriu els ritmes que et dicta el professor

